TEMAT: CZYNNIKI ROZWOJU ROLNICTWA W POLSCE

1. Przypomnijcie sobie czynniki przyrodnicze i pozaprzyrodnicze wpływające na rozwój rolnictwa.
2. Ważne pojęcia:

-zbiory
-plony
-Struktura agrarna
- struktura użytkowania ziemi.
-rolnictwo intensywne
-rolnictwo ekstensywne
-rolnictwo towarowe

Porównaj strukturę użytkowania ziemi w Polsce(diagram kołowy) z wybranymi państwami .

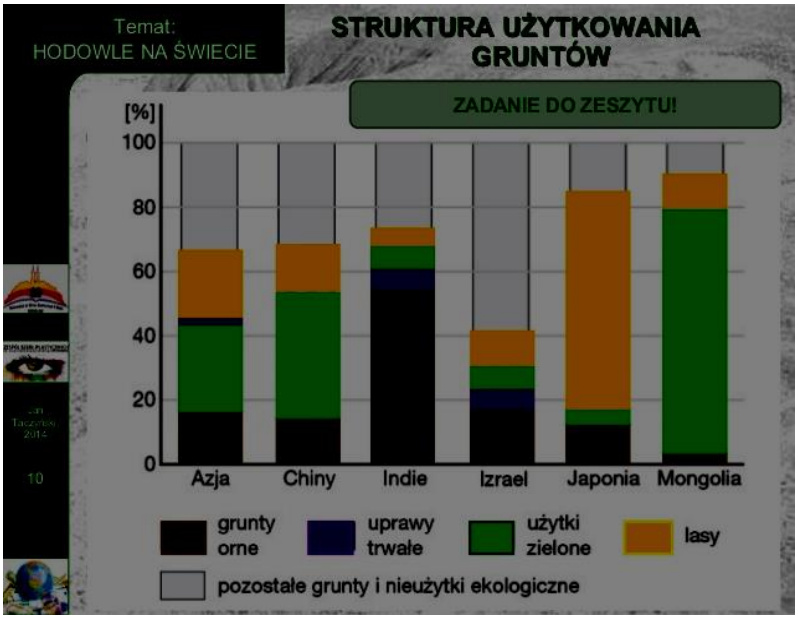

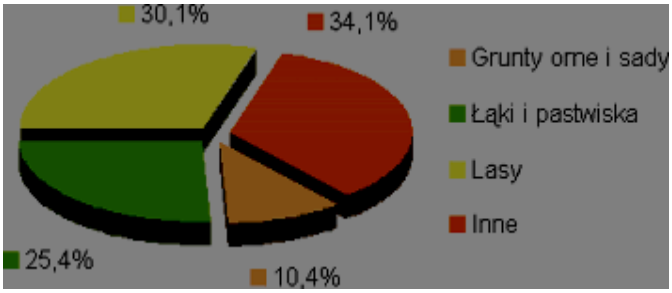

3. Dokonaj analizy załączonej mapy

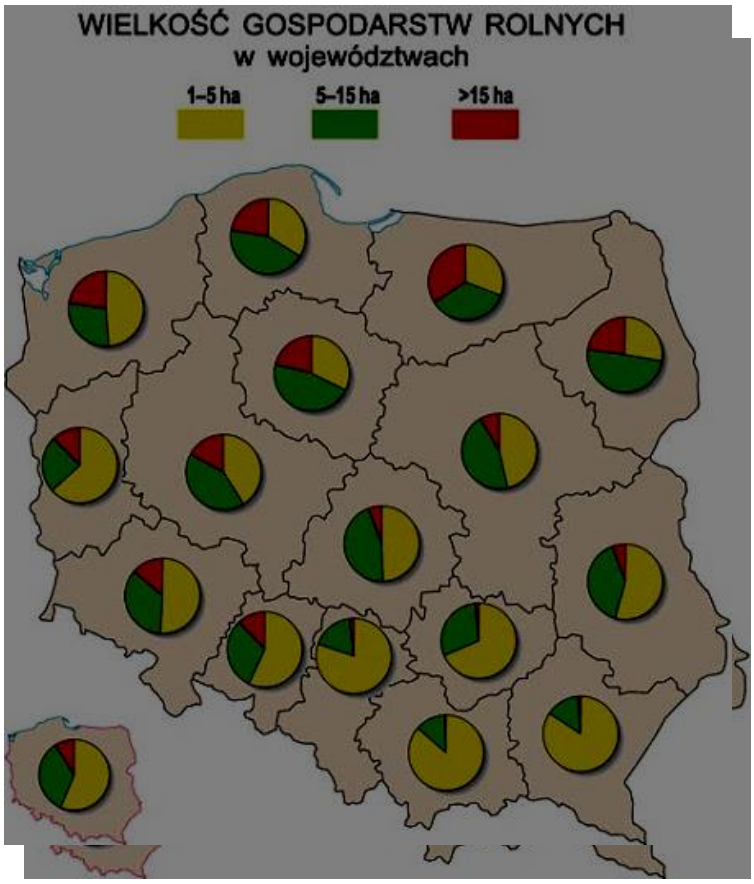

- Jaką metodę kartograficzną wykorzystano przy sporządzaniu tej mapy?
-W których 4 województwach występują największe gospodarstwa, a gdzie najbardziej rozdrobnione?

Krainy geograficzne o najkorzystniejszych warunkach dla rozwoju rolnictwa to:
NIZINA ŚLĄSKA , a w mniejszym stopniu Wyżyna Lubelska , Kotlina Sandomierska , Żuławy Wiślane.
Dlaczego Nizina Śląska ?– najdłuższy okres wegetacji (230 dni), gleby cazrnoziemy i czarne ziemie.

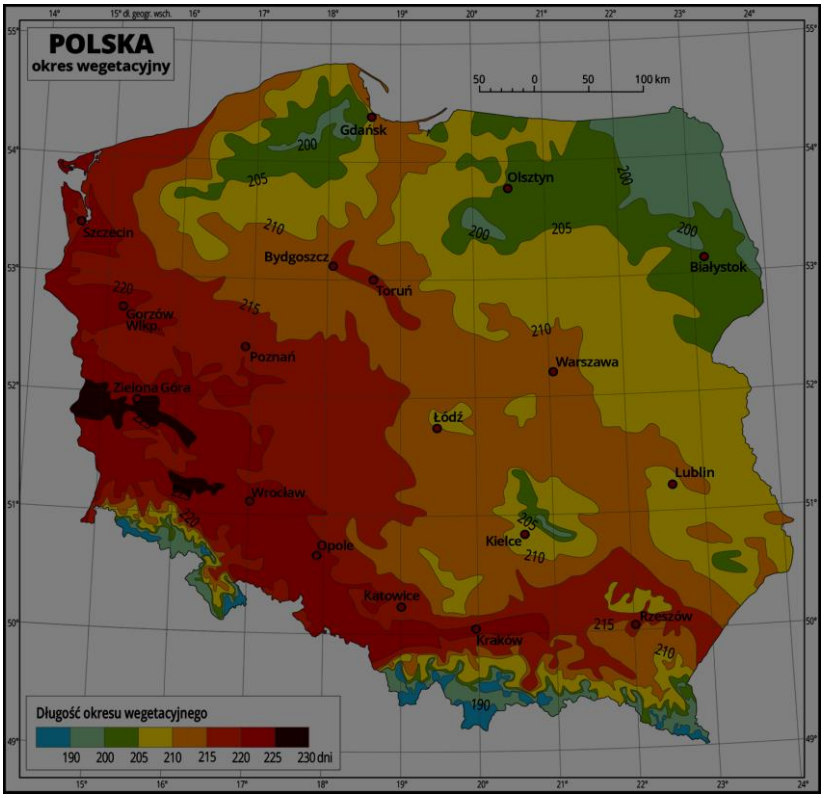

Produkcja roślinna w Polsce(str478-479)
Do podanych roślin dopisz główne obszary upraw
-pszenica
-żyto
-jęczmień
-ziemniaki
- buraki cukrowe
-len
-rzepak
-tytoń
-chmiel
Rejony sadownicze w Polsce to :
Okolice Grójca , Sandomierza i Nowego Sącza